BACCALAUREAT TECHNOLOGIQUE

Session 2009

Épreuve :

MATHÉMATIQUES

Série

SCIENCES ET TECHNOLOGIE DE LABORATOIRE

CHIMIE DE LABORATOIRE ET DE PROCÉDÉS INDUSTRIELS

Durée de l'épreuve : 3 heures coefficient : 4

L'usage de la calculatrice est autorisé.

Une feuille de papier millimétré sera distribuée aux candidats. Elle sera réservée pour le problème.

Un formulaire de mathématiques sera distribué aux candidats.

Le sujet comporte 3 pages.

Exercice 1 (5 points)

On considère l'équation différentielle

$$2y' + y = 0 \qquad (E),$$

où l'inconnue y est une fonction définie et dérivable sur **R**.

1) Résoudre l'équation différentielle (E).
2) On note f la solution de l'équation différentielle (E) vérifiant $f(0) = 2$.
   Montrer que la fonction f est définie sur **R** par $f(x) = 2\mathrm{e}^{-\frac{x}{2}}$.
3) On note M la valeur moyenne de la fonction f sur l'intervalle [0 ; 2].
   Calculer M. On donnera la valeur exacte de M et son arrondi à 10^{-1} près.
4) La courbe représentative de la fonction f sur l'intervalle [0 ; 2] est donnée par l'un des trois graphiques suivants :

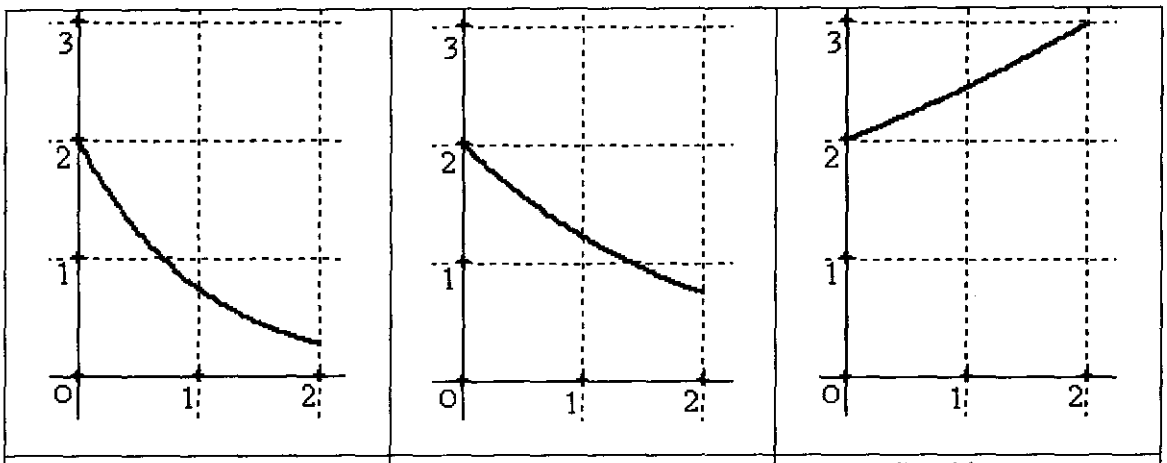

Graphique 1	Graphique 2	Graphique 3

Quel est le graphique qui donne la courbe représentative de la fonction f sur l'intervalle [0 ; 2] ? On explicitera le raisonnement qui a conduit au choix de ce graphique.

Exercice 2 (6 points)

On note i le nombre complexe de module 1 et dont un argument est $\frac{\pi}{2}$.

Le plan complexe est muni d'un repère orthonormal $(O; \vec{u}, \vec{v})$ (unité graphique : 2 cm).

On considère les points A, B, C d'affixes respectives :

$$z_A = 3 + i\sqrt{3}\ ,\ z_B = \overline{z_A}\ ,\ z_C = 2.$$

1) Déterminer le module et un argument de chacun des nombres complexes z_A , z_B , z_C .
2) Ecrire les nombres complexes z_A et z_B sous forme exponentielle.
3) Placer les points A, B, C sur une figure.
4) Déterminer l'affixe du point A' symétrique du point A par rapport au point C.
5) Montrer que les points A, B, A' et O appartiennent à un même cercle de centre C. On précisera le rayon de ce cercle.
6) *Dans cette question toute trace de recherche, même incomplète, ou d'initiative même infructueuse sera prise en compte dans l'évaluation.*
   Montrer que la droite (AC) est une médiane du triangle OAB.

Problème (9 points)

Soit f la fonction numérique définie sur **R** par $f(x) = x + e^{-x}$.

On note $\mathscr{C}$ la courbe représentative de la fonction f dans un repère orthonormal $(O; \vec{i}, \vec{j})$ (unité graphique : 2 cm).

1) Déterminer la limite de la fonction f en $+\infty$.

2) Vérifier que, pour tout nombre réel x, $f(x) = e^{-x}(xe^{x} + 1)$.
En déduire la limite de la fonction f en $-\infty$.

3) On note f' la fonction dérivée de la fonction f sur **R**.

a) Calculer $f'(x)$.
b) Résoudre l'équation $f'(x) = 0$. Que peut-on en déduire pour la courbe $\mathscr{C}$?
c) Etudier le signe de la fonction f' sur **R**.
d) Etablir le tableau de variations de la fonction f (on indiquera les limites).

4)

a) Montrer que la droite Δ d'équation $y = x$ est asymptote à la courbe $\mathscr{C}$.
b) Déterminer la position relative de la courbe $\mathscr{C}$ et de la droite Δ.
c) Tracer la courbe $\mathscr{C}$ et la droite Δ.

5) Calcul d'aire

a) Déterminer une primitive F de la fonction f sur **R**.
b) Soit $\mathscr{S}$ la partie du plan limitée par la courbe $\mathscr{C}$, l'axe des abscisses, l'axe des ordonnées et la droite d'équation $x = 2$.
Soit $\mathscr{A}$ l'aire, exprimée en unités d'aire, de la partie $\mathscr{S}$.
Calculer la valeur exacte de $\mathscr{A}$ puis son arrondi à 10^{-2} près.

BACCALAURÉAT, SÉRIES STI (toutes spécialités),
STL (spécialités physique de laboratoire et de procédés industriels
chimie de laboratoire et de procédés industriels)

FORMULAIRE DE MATHÉMATIQUES

I. PROBABILITÉS

Si A et B sont incompatibles : $P(A \cup B) = P(A) + P(B)$

Dans le cas général : $P(A \cup B) = P(A) + P(B) - P(A \cap B)$

$P(\overline{A}) = 1 - P(A)$; $P(\Omega) = 1$; $P(\varnothing) = 0$

Dans le cas équiprobable : $P(A) = \dfrac{\text{Nombre d'éléments de } A}{\text{Nombre d'éléments de } \Omega}$

Variable aléatoire

Fonction de répartition : $F(x) = P(X \leqslant x)$

Espérance mathématique : $E(X) = \sum_{i=1}^{n} p_i x_i$

Variance : $V(X) = \sum_{i=1}^{n} p_i (x_i - E(X))^2 = \sum_{i=1}^{n} p_i x_i^2 - (E(X))^2$

Écart type $\sigma(X) = \sqrt{V(X)}$

II. ALGÈBRE

A. *NOMBRES COMPLEXES*

Forme algébrique : $z = x + iy$

Forme trigonométrique : $z = \rho(\cos\theta + i\sin\theta) = \rho e^{i\theta}, \rho > 0$

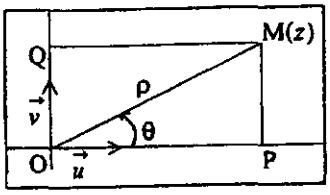

$\overrightarrow{OM} = x\vec{u} + y\vec{v}$

$\overline{OP} = x = \Re e(z) = \rho\cos\theta$

$\overline{OQ} = y = \Im m(z) = \rho\sin\theta$

$OM = \rho = |z| = \sqrt{x^2 + y^2}$

Opérations algébriques

$z + z' = (x + iy) + (x' + iy') = (x + x') + i(y + y')$

$zz' = (x + iy)(x' + iy') = (xx' - yy') + i(xy' + x'y)$

Conjugué

$z = x + iy = \rho e^{i\theta}$; $\overline{z} = x - iy = \rho e^{-i\theta}$

$x = \frac{1}{2}(z + \overline{z})$; $y = \frac{1}{2i}(z - \overline{z})$

$\overline{z + z'} = \overline{z} + \overline{z'}$; $\overline{zz'} = \overline{z}\,\overline{z'}$

$z\overline{z} = x^2 + y^2 = |z|^2$

$\frac{1}{z} = \frac{\overline{z}}{z\overline{z}} = \frac{x}{x^2 + y^2} + i\frac{-y}{x^2 + y^2} = \frac{1}{\rho}e^{-i\theta}$

Module et argument d'un produit, d'un quotient

$zz' = (\rho e^{i\theta})(\rho' e^{i\theta'}) = \rho\rho' e^{i(\theta + \theta')}$

$|zz'| = |z||z'|$

$\frac{z}{z'} = \frac{\rho e^{i\theta}}{\rho' e^{i\theta'}} = \frac{\rho}{\rho'}e^{i(\theta - \theta')}$

$\left|\frac{z}{z'}\right| = \frac{|z|}{|z'|}$

$z^n = (\rho e^{i\theta})^n = \rho^n e^{in\theta}, n \in \mathbb{Z}$

Inégalité triangulaire

$\big||z| - |z'|\big| \leqslant |z + z'| \leqslant |z| + |z'|$

B. *IDENTITÉS REMARQUABLES*

(valables sur $\mathbb{C}$ et donc sur $\mathbb{R}$)

$(a + b)^2 = a^2 + 2ab + b^2$; $(a - b)^2 = a^2 - 2ab + b^2$

$(a + b)^3 = a^3 + 3a^2b + 3ab^2 + b^3$

$(a - b)^3 = a^3 - 3a^2b + 3ab^2 - b^3$

$a^2 - b^2 = (a + b)(a - b)$; $a^2 + b^2 = (a + ib)(a - ib)$

C. TRIGONOMÉTRIE

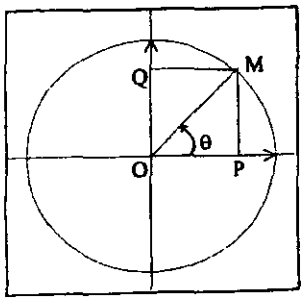

$\overline{OP} = \cos\theta$

$\overline{OQ} = \sin\theta$

$\cos^2\theta + \sin^2\theta = 1$

$\tan\theta = \dfrac{\sin\theta}{\cos\theta}, \quad \theta \neq \dfrac{\pi}{2} + k\pi$

Valeurs remarquables

	0	$\frac{\pi}{6}$	$\frac{\pi}{4}$	$\frac{\pi}{3}$	$\frac{\pi}{2}$	π
sin	0	$\frac{1}{2}$	$\frac{\sqrt{2}}{2}$	$\frac{\sqrt{3}}{2}$	1	0
cos	1	$\frac{\sqrt{3}}{2}$	$\frac{\sqrt{2}}{2}$	$\frac{1}{2}$	0	-1
tan	0	$\frac{\sqrt{3}}{3}$	1	$\sqrt{3}$		0

Formules d'Euler

$\cos\theta = \dfrac{1}{2}\left(e^{i\theta} + e^{-i\theta}\right) \quad ; \quad \sin\theta = \dfrac{1}{2i}\left(e^{i\theta} - e^{-i\theta}\right)$

Formules d'addition

$e^{i(a+b)} = e^{ia}e^{ib}$

$\cos(a+b) = \cos a \cos b - \sin a \sin b$

$\cos(a-b) = \cos a \cos b + \sin a \sin b$

$\sin(a+b) = \sin a \cos b + \cos a \sin b$

$\sin(a-b) = \sin a \cos b - \cos a \sin b$

$\cos 2a = \cos^2 a - \sin^2 a = 2\cos^2 a - 1 = 1 - 2\sin^2 a$

$\sin 2a = 2 \sin a \cos a$

$\cos^2 a = \dfrac{1}{2}(1 + \cos 2a) \; ; \; \sin^2 a = \dfrac{1}{2}(1 - \cos 2a)$

Formules de Moivre

Pour tout entier naturel non nul n, $\left(e^{i\theta}\right)^n = e^{in\theta}$

soit encore $(\cos\theta + i\sin\theta)^n = \cos n\theta + i \sin n\theta$

D. ÉQUATION DU SECOND DEGRÉ

Soient a, b, c des nombres réels, $a \neq 0$, et $\Delta = b^2 - 4ac$.

L'équation $az^2 + bz + c = 0$ admet :

- si $\Delta > 0$, deux solutions réelles
$$z_1 = \frac{-b + \sqrt{\Delta}}{2a} \text{ et } z_2 = \frac{-b - \sqrt{\Delta}}{2a}$$
- si $\Delta = 0$, une solution réelle double
$$z_1 = z_2 = -\frac{b}{2a}$$
- si $\Delta < 0$, deux solutions complexes conjuguées
$$z_1 = \frac{-b + i\sqrt{-\Delta}}{2a} \text{ et } z_2 = \frac{-b - i\sqrt{-\Delta}}{2a}$$

Dans tous les cas : $az^2 + bz + c = a(z - z_1)(z - z_2)$.

$z_1 + z_2 = -\dfrac{b}{a}, \quad z_1 z_2 = \dfrac{c}{a}$

E. SUITES ARITHMÉTIQUES, SUITES GÉOMÉTRIQUES

Suites arithmétiques

Premier terme u_0 ; $u_{n+1} = u_n + a$; $u_n = u_0 + na$

$1 + 2 + \cdots + n = \dfrac{n(n+1)}{2}$

Suites géométriques

Premier terme u_0 ; $u_{n+1} = bu_n$; $u_n = u_0 b^n$

Si $b \neq 1$, $\quad S_n = 1 + b + b^2 + \cdots + b^n = \dfrac{1 - b^{n+1}}{1 - b}$

Si $b = 1$, $\quad S_n = n + 1$

III. ANALYSE

A. *PROPRIÉTÉS ALGÉBRIQUES DES FONCTIONS USUELLES*

1. Fonctions logarithme et exponentielle

$ln\ 1 = 0$

$ln\ e = 1$

$ln ab = ln a + ln b$

$ln \frac{a}{b} = ln a - ln b$

Si $x \in]-\infty, +\infty[$ et $y \in]0, +\infty[$,

$y = exp\, x = e^x$ équivaut à $x = ln\, y$

$e^0 = 1$

$e^{a+b} = e^a e^b$

$e^{a-b} = \frac{e^a}{e^b}$

$a^x = e^{x\, ln\, a}$ $(a > 0)$

$\left(e^a\right)^b = e^{ab}$

$ln a^x = x\, ln a$

2. Fonctions puissances

$x^\alpha = e^{\alpha\, ln\, x}$ $(x > 0)$

$x^0 = 1$

$x^{\alpha+\beta} = x^\alpha x^\beta$

$x^{\alpha-\beta} = \frac{x^\alpha}{x^\beta}$

$\left(x^\alpha\right)^\beta = x^{\alpha\beta}$

Si $n \in \mathbb{N}^*$, $x \in [0, +\infty[$ et $y \in [0, +\infty[$.

$y = \sqrt[n]{x}$ équivaut à $x = y^n$

B. *LIMITES USUELLES DE FONCTIONS ET DE SUITES*

1. Fonctions

Comportement à l'infini

$\lim\limits_{x \to +\infty} ln\, x = +\infty$

$\lim\limits_{x \to +\infty} e^x = +\infty$

$\lim\limits_{x \to -\infty} e^x = 0$

Si $\alpha > 0$, $\lim\limits_{x \to +\infty} x^\alpha = +\infty$; si $\alpha < 0$, $\lim\limits_{x \to +\infty} x^\alpha = 0$

Croissances comparées à l'infini

$\lim\limits_{x \to +\infty} \frac{e^x}{x} = +\infty$

$\lim\limits_{x \to -\infty} x e^x = 0$

$\lim\limits_{x \to +\infty} \frac{ln\, x}{x} = 0$

Si $\alpha > 0$, $\lim\limits_{x \to +\infty} \frac{e^x}{x^\alpha} = +\infty$

Si $\alpha > 0$, $\lim\limits_{x \to +\infty} x^\alpha e^{-x} = 0$

Si $\alpha > 0$, $\lim\limits_{x \to +\infty} \frac{ln\, x}{x^\alpha} = 0$

Comportement à l'origine

$\lim\limits_{x \to 0} ln\, x = -\infty$

Si $\alpha > 0$, $\lim\limits_{x \to 0} x^\alpha = 0$; si $\alpha < 0$, $\lim\limits_{x \to 0} x^\alpha = +\infty$

Comportement à l'origine de $ln(1 + x)$, e^x, $\sin x$

$\lim\limits_{h \to 0} \frac{ln(1+h)}{h} = 1$

$\lim\limits_{h \to 0} \frac{e^h - 1}{h} = 1$

$\lim\limits_{h \to 0} \frac{\sin h}{h} = 1$

2. Suites (SÉRIES STL, spécialités génie électronique et génie électrotechnique, STL, spécialité physique de laboratoire et de procédés industriels)

Si $k > 1$, $\lim\limits_{n \to +\infty} k^n = +\infty$; si $0 < k < 1$, $\lim\limits_{n \to +\infty} k^n = 0$

C. *DÉRIVÉES ET PRIMITIVES* (Les formules ci-dessous peuvent servir à la fois pour calculer des dérivées et des primitives)

1. Dérivées et primitives des fonctions usuelles

$f(x)$	$f'(x)$	*Intervalle de validité*
k	0	$]-\infty,+\infty[$
x	1	$]-\infty,+\infty[$
$x^n,\ n\in\mathbb{N}^*$	nx^{n-1}	$]-\infty,+\infty[$
$\frac{1}{x}$	$-\frac{1}{x^2}$	$]-\infty,0[$ ou $]0,+\infty[$
$\frac{1}{x^n},\ n\in\mathbb{N}^*$	$-\frac{n}{x^{n+1}}$	$]-\infty,0[$ ou $]0,+\infty[$
$\sqrt{x}$	$\frac{1}{2\sqrt{x}}$	$]0,+\infty[$
$x^\alpha,\ \alpha\in\mathbb{R}$	$\alpha x^{\alpha-1}$	$]0,+\infty[$
$\ln x$	$\frac{1}{x}$	$]0,+\infty[$
e^x	e^x	$]-\infty,+\infty[$
$\cos x$	$-\sin x$	$]-\infty,+\infty[$
$\sin x$	$\cos x$	$]-\infty,+\infty[$

2. Opérations sur les dérivées

$(u+v)' = u'+v'$

$(ku)' = ku'$

$(uv)' = u'v+uv'$

$\left(\frac{1}{u}\right)' = -\frac{u'}{u^2}$

$\left(\frac{u}{v}\right)' = \frac{u'v-uv'}{v^2}$

$(v\circ u)' = (v'\circ u)u'$

$(e^u)' = e^u u'$

$(\ln u)' = \frac{u'}{u}$, u à valeurs strictement positives

$(u^\alpha)' = \alpha u^{\alpha-1}u'$

D. *CALCUL INTÉGRAL*

Si F est une primitive de f, alors $\int_a^b f(t)dt = F(b)-F(a)$

Formule de Chasles

$\int_a^c f(t)dt = \int_a^b f(t)dt + \int_b^c f(t)dt$

$\int_b^a f(t)dt = -\int_a^b f(t)dt$

Linéarité

$\int_a^b (\alpha f(t)+\beta g(t))dt = \alpha\int_a^b f(t)dt + \beta\int_a^b g(t)dt$

Positivité

Si $a\leqslant b$ et $f\geqslant 0$, alors $\int_a^b f(t)dt \geqslant 0$.

Intégration d'une inégalité

Si $a\leqslant b$ et $f\leqslant g$, alors $\int_a^b f(t)dt \leqslant \int_a^b g(t)dt$

Si $a\leqslant b$ et $m\leqslant f\leqslant M$, alors $m(b-a)\leqslant \int_a^b f(t)dt \leqslant M(b-a)$

Valeur moyenne de f sur $[a\ ,\ b]$: $\frac{1}{b-a}\int_a^b f(t)dt$

E. *ÉQUATIONS DIFFÉRENTIELLES*

Équations	Solutions sur $]-\infty\ ,\ +\infty[$
$y'-ay=0$	$f(x)=ke^{ax}$
$y''+\omega^2 y=0$	$f(x)=A\cos\omega x+B\sin\omega x$